Arbeitsblatt 1 – Winkelmessen mit Pacmans

gestaltet von Paul Mogeritsch

Aufgabe 1: Wie weit haben die Pacmans ihre Mäuler geöffnet? Miss dazu die Winkelgröße der Winkel ab.

Aufgabe 2: Wie groß sind die Pacmans? Miss die Größe der Pacmans anhand der Größe des erhabenen Winkels ab.

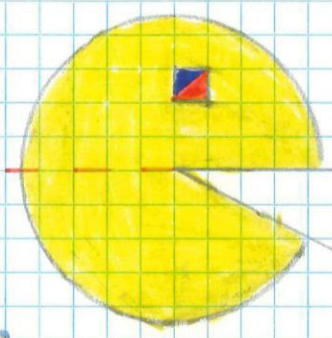

Pacman: _____°

Maul: _____°

Pacman: _____°

Maul: _____°



Pacman: _____°

Maul: _____°



Pacman: _____°

Maul: _____°

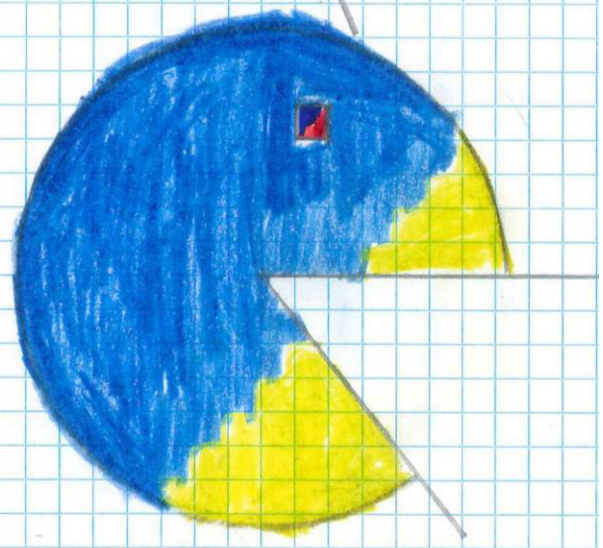

Pacman: _____°

Maul: _____°

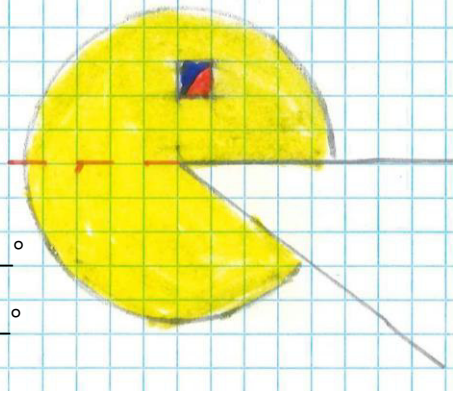

Pacman: _____°

Maul: _____°



Pacman: _____°

Maul: _____°